TRABAJO PRÁCTICO	Plan Institucional de Continuidad Pedagógica
FECHA PRESENTACIÓN	09/12/2026
MATERIA:	Matemática
DOCENTE/S COORDINADOR/ES	Velázquez, Yamila
CORREO ELECTRÓNICO	yamilaveru@gmail.com
CURSO Y DIVISIÓN	4to 1era TM
QUINCENA (1 O 2)	2

-

ACTIVIDADES A REALIZAR

Consideraciones:

- La resolución de las actividades deben detallar todos los procedimientos, cálculos y verificaciones necesarias.
- El medio de comunicación y de entrega del trabajo es el correo electrónico.
- La resolución y presentación de este trabajo práctico forma parte de la nota del 3° trimestre, su aprobación no implica que se apruebe ni el trimestre ni la materia. Esto depende de lo trabajado y evaluado en todo el año escolar.

CONTENIDOS: FUNCIONES-Interpretación de gráficos

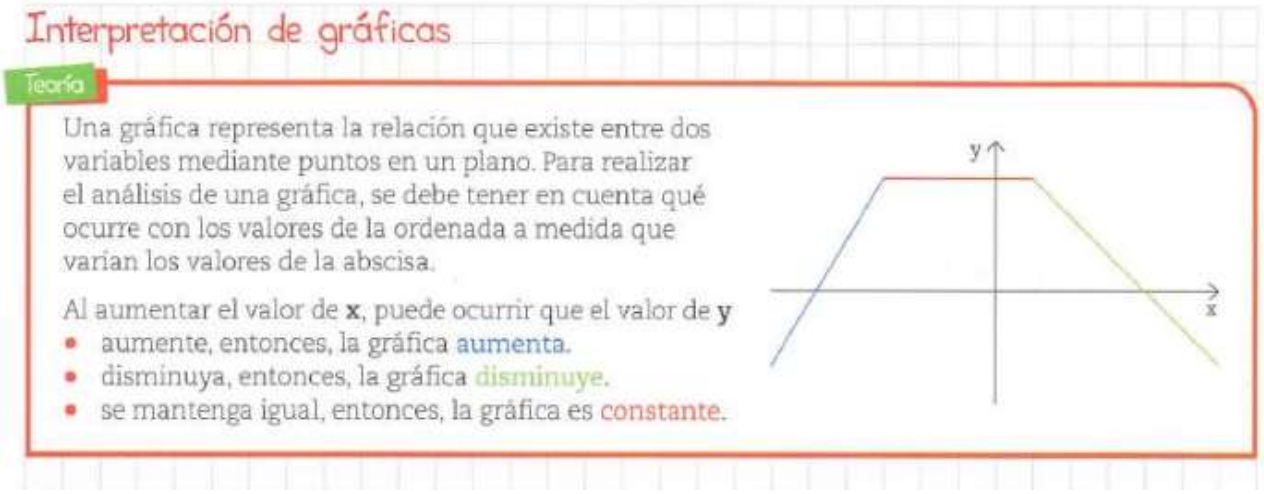

EVALUACION:

7 Observar la gráfica y colocar A (aumenta), C (constante) o D (disminuye).

a) $-3 < x < -2$ ☐ e) $1 < x < 2$ ☐

b) $0 < x < 1$ ☐ f) $-8 < x < -7$ ☐

c) $4 < x < 5$ ☐ g) $-2 < x < -1$ ☐

d) $-6 < x < -5$ ☐ h) $3 < x < 4$ ☐

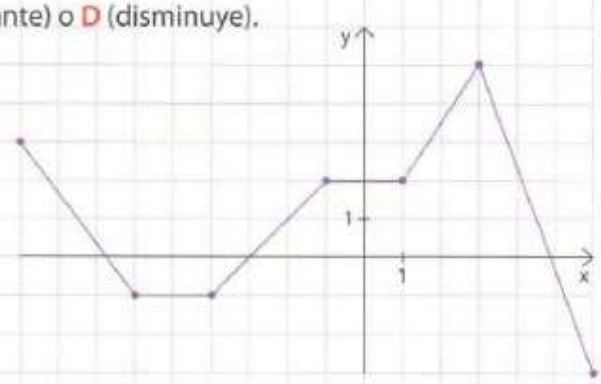

8 Observar la gráfica y completar los pares ordenados.

a) $(-6;\square)$ c) $(-3;\square)$ e) $(0;\square)$

b) $(\square;4)$ d) $(\square;-8)$ f) $(\square;0)$

Escribir todos los puntos que cumplan con cada condición.

g) Tengan ordenada igual a 3:

h) Tengan las componentes iguales:

Observar la gráfica y responder.

i) ¿Entre qué valores varía la abscisa?

j) ¿Entre cuáles la ordenada?

k) ¿Entre qué valores de x la gráfica es negativa?

l) ¿Entre cuáles es positiva?

m) ¿Y entre cuáles es constante?

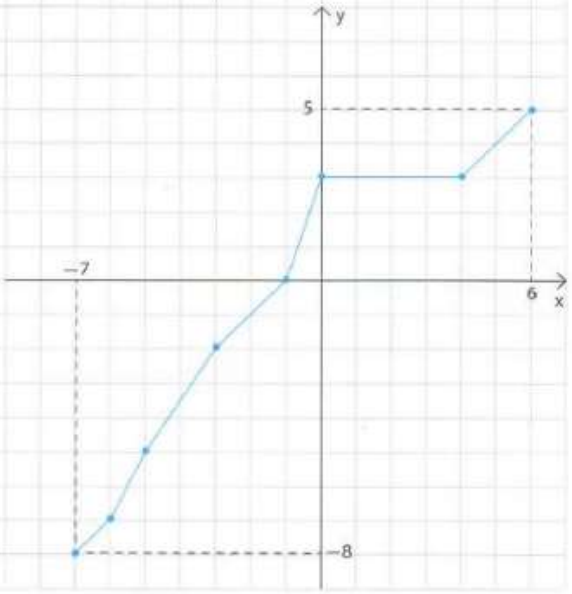

9 La gráfica muestra las temperaturas **máximas** y **mínimas** de una ciudad durante los primeros 15 días de julio.

Observar el gráfico y responder.

a) ¿Entre qué valores se registraron las temperaturas máximas?

b) ¿Y entre cuáles las temperaturas mínimas?

c) ¿En qué días las temperaturas máximas fueron menores que 0°C?

d) ¿En qué períodos las temperaturas máximas aumentaron?

e) ¿En cuáles diminuyeron?

f) ¿Entre qué días las temperaturas máximas tuvieron un menor aumento?

g) ¿En qué período las temperaturas mínimas fueron menores a − 5°C?

h) ¿Cuál fue la amplitud térmica del 7 de julio?

